COLEGIO ATENEA ÁNIMAS S. C.

PRIMARIA
CLAVE:30PPR0025E
CICLO ESCOLAR 2023-2024
TAREAS

GRADO: **6° “A“ y “ B”**

SEMANA: del 15 al 19 de enero del 2024

DOCENTES: **LIC. LIDIA ESTHER ESPINOSA MARTÍNEZ LIC. KARINA ITZEL ELOX ESTUDILLO**

TAREA

LUNES 15 DE ENERO DEL 2024

Matemáticas

Tema: Suma y resta con decimales

Descripción de la actividad: Responde y pega en la libreta los siguientes anexos

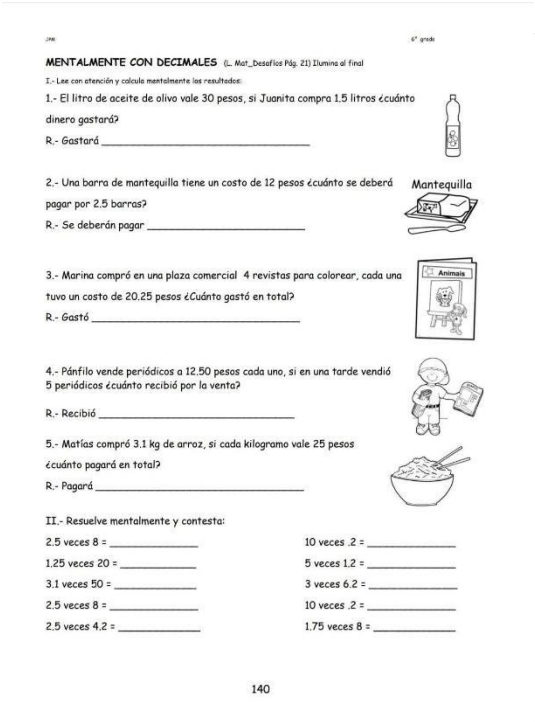

Nombre 6° grado

MENTALMENTE CON DECIMALES (L. Mat_Desafíos Pág. 21) Ilumina al final

I.- Lee con atención y calcula mentalmente los resultados:

1.- El litro de aceite de olivo vale 30 pesos, si Juanita compra 1.5 litros ¿cuánto dinero gastará?

R.- Gastará _____

2.- Una barra de mantequilla tiene un costo de 12 pesos ¿cuánto se deberá pagar por 2.5 barras?

R.- Se deberán pagar _____

Mantequilla

3.- Marina compró en una plaza comercial 4 revistas para colorear, cada una tuvo un costo de 20.25 pesos ¿Cuánto gastó en total?

R.- Gastó _____

Animais

4.- Pánfilo vende periódicos a 12.50 pesos cada uno, si en una tarde vendió 5 periódicos ¿cuánto recibió por la venta?

R.- Recibió _____

5.- Matías compró 3.1 kg de arroz, si cada kilogramo vale 25 pesos ¿cuánto pagará en total?

R.- Pagará _____

II.- Resuelve mentalmente y contesta:

2.5 veces 8 = _____ 10 veces .2 = _____

1.25 veces 20 = _____ 5 veces 1.2 = _____

3.1 veces 50 = _____ 3 veces 6.2 = _____

2.5 veces 8 = _____ 10 veces .2 = _____

2.5 veces 4.2 = _____ 1.75 veces 8 = _____

140

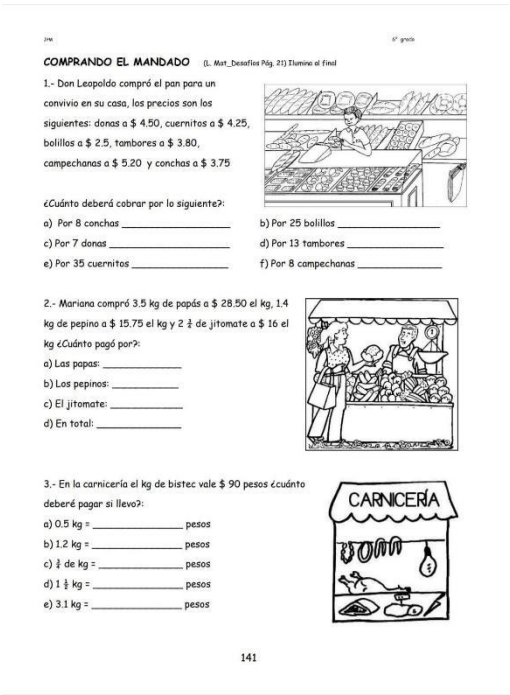

Nombre 6° grado

COMPRANDO EL MANDADO (L. Mat_Desafíos Pág. 21) Ilumina al final

1.- Don Leopoldo compró el pan para un convivio en su casa, los precios son los siguientes: donas a $ 4.50, cuernitos a $ 4.25, bolillos a $ 2.5, tambores a $ 3.80, campechanas a $ 5.20 y conchas a $ 3.75

¿Cuánto deberá cobrar por lo siguiente?:

a) Por 8 conchas _____ b) Por 25 bolillos _____

c) Por 7 donas _____ d) Por 13 tambores _____

e) Por 35 cuernitos _____ f) Por 8 campechanas _____

2.- Mariana compró 3.5 kg de papás a $ 28.50 el kg, 1.4 kg de pepino a $ 15.75 el kg y 2 ¼ de jitomate a $ 16 el kg ¿Cuánto pagó por?:

a) Las papas: _____

b) Los pepinos: _____

c) El jitomate: _____

d) En total: _____

3.- En la carnicería el kg de bistec vale $ 90 pesos ¿cuánto deberé pagar si llevo?:

a) 0.5 kg = _____ pesos

b) 1.2 kg = _____ pesos

c) ¾ de kg = _____ pesos

d) 1 ½ kg = _____ pesos

e) 3.1 kg = _____ pesos

CARNICERÍA

141

Fecha de entrega: martes 16 de enero del 2024

LUNES 15 DE ENERO DEL 2024

Historia

Tema: civilizaciones anteriores a los incas: chavín, nazca, moche, Tiahuanaco, huari.

Descripción de la actividad: realizar una investigación (en fuentes confiables) con las características: organización económica (principales actividades económicas), organización social, política y cultural.

Recuerda que en la investigación se debe destacar:

-Portada

-Índice

-Objetivo de la investigación.

-introducción

-desarrollo (incluir imágenes).

-conclusión

-bibliografía

Fecha de entrega: viernes 19 de enero del 2024

MARTES 16 DE ENERO DEL 2024

Geografía

Tema: Recursos renovables y no renovables

Descripción de la actividad: Realizar en la libreta de apuntes un mapa mental sobre los recursos renovables y no renovables.

Fecha de entrega: miércoles 17 de enero del 2024

MARTES 16 DE ENERO DEL 2024

Ciencias Naturales

Tema: Relación entre las propiedades de los materiales y su consumo responsable

Descripción de la actividad: En libreta de apuntes contesta las siguientes preguntas:

¿Es necesario siempre un cuaderno nuevo? Si o no y por qué

¿Los productos que compras contienen muchos empaques? ¿cuántos?

¿Estos empaques son de fácil degradación?

¿Existen en el mercado productos con menos empaques o que en su elaboración utilicen materiales reciclados?

Elabora una lista de productos que se consuman en tu casa cotidianamente y describe cuáles son los materiales con los que están hechos, y a qué tipos de residuos pertenecen y cuánto tiempo tardan en degradarse

Fecha de entrega: jueves 18 de enero del 2024

MIÉRCOLES 17 DE ENERO DEL 2024

Español

Tema: Relato histórico

Descripción de la actividad: Redacta en la libreta de apuntes un relato histórico sobre las civilizaciones anteriores a los incas incluyendo e identificando verbos en copretérito (subrayarlos con color).

Fecha de entrega: jueves 25 de enero del 2024

LABORATORIO

6° GRADO GRUPO A y B. Se trabajará con el manual en la práctica "SIN AGUA NO AGUANTAS" los materiales que deben traer por equipo son:

- Lapicera
- Bata de laboratorio

FECHA DE ENTREGA: MARTES 16 DE ENERO

MENTALMENTE CON DECIMALES (L. Mat_Desafíos Pág. 21) Ilumina al final

I.- Lee con atención y calcula mentalmente los resultados:

1.- El litro de aceite de olivo vale 30 pesos, si Juanita compra 1.5 litros ¿cuánto dinero gastará?

R.- Gastará _____

2.- Una barra de mantequilla tiene un costo de 12 pesos ¿cuánto se deberá pagar por 2.5 barras?

R.- Se deberán pagar _____

3.- Marina compró en una plaza comercial 4 revistas para colorear, cada una tuvo un costo de 20.25 pesos ¿Cuánto gastó en total?



R.- Gastó _____

4.- Pánfilo vende periódicos a 12.50 pesos cada uno, si en una tarde vendió 5 periódicos ¿cuánto recibió por la venta?

R.- Recibió _____

5.- Matías compró 3.1 kg de arroz, si cada kilogramo vale 25 pesos ¿cuánto pagará en total?



R.- Pagará _____

II.- Resuelve mentalmente y contesta:

2.5 veces 8 = _____

1.25 veces 20 = _____

3.1 veces 50 = _____

2.5 veces 8 = _____

2.5 veces 4.2 = _____

10 veces .2 = _____

5 veces 1.2 = _____

3 veces 6.2 = _____

10 veces .2 = _____

1.75 veces 8 = _____

COMPRANDO EL MANDADO (L. Mat_Desafíos Pág. 21) Ilumina al final

1.- Don Leopoldo compró el pan para un convivio en su casa, los precios son los siguientes: donas a $ 4.50, cuernitos a $ 4.25, bolillos a $ 2.5, tambores a $ 3.80, campechanas a $ 5.20 y conchas a $ 3.75

¿Cuánto deberá cobrar por lo siguiente?:

a) Por 8 conchas _____

b) Por 25 bolillos _____

c) Por 7 donas _____

d) Por 13 tambores _____

e) Por 35 cuernitos _____

f) Por 8 campechanas _____

2.- Mariana compró 3.5 kg de papás a $ 28.50 el kg, 1.4 kg de pepino a $ 15.75 el kg y 2 $\frac{3}{4}$ de jitomate a $ 16 el kg ¿Cuánto pagó por?:

a) Las papas: _____

b) Los pepinos: _____

c) El jitomate: _____

d) En total: _____

3.- En la carnicería el kg de bistec vale $ 90 pesos ¿cuánto deberé pagar si llevo?:

a) 0.5 kg = _____ pesos

b) 1.2 kg = _____ pesos

c) $\frac{3}{4}$ de kg = _____ pesos

d) 1 $\frac{1}{2}$ kg = _____ pesos

e) 3.1 kg = _____ pesos